N° DOSSARD :……

défi 2010

BALISE JAUNE

Direction Technique Nationale

1. Trouve la carte correspondant au paysage. Entoure la lettre de la bonne carte. *(1 point)*

pts

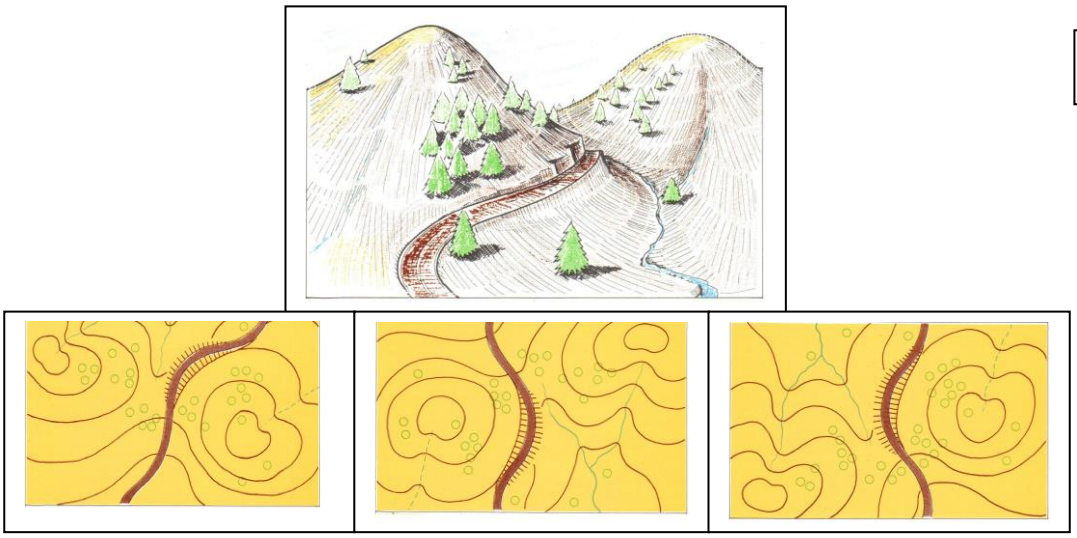

A **B** **C**

2. Donne la signification des symboles ci-dessous *(1,5 point)*

pts

3. Dessine le symbole correspondant à sa définition et donne sa couleur *(2 points)*

pts

PUIT, FONTAINE Couleur : ……	GRANDE TOUR Couleur :…….	MUR INFRANCHISSABLE Couleur :……	TALUS Couleur :……..

4. Sur une carte au 1/10000ème, tu mesures 1,5 cm pour te rendre de ton point d'attaque au poste. Combien de mètres sur le terrain dois-tu parcourir pour trouver la balise? *(1point)*

pts

Nombres de mètres =……

5. Traduire la définition *« Rocher – le plus au nord – Côté Sud »* du poste 2 en définition codifiée I.O.F comme l'exemple: *(1point)*

pts

1	34						
2	41						

6. Quelle est la définition des postes suivants en symboles codifiés I.O.F : *(1,5 points)*

pts

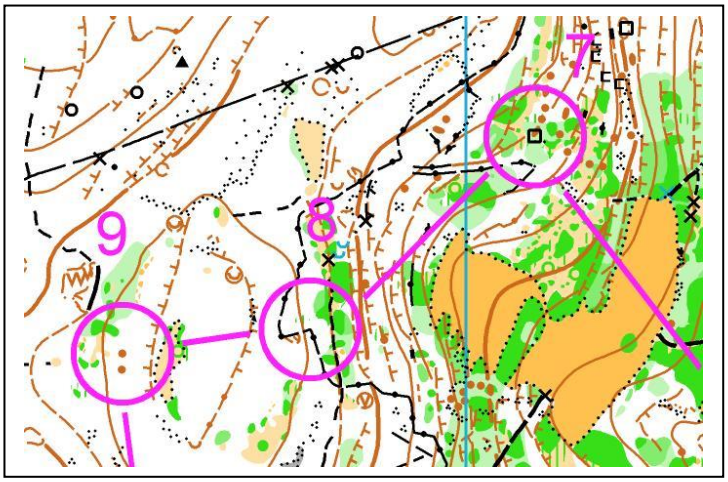

7	44						
8	42						
9	56						

7. En observant la carte ci dessous, relies les lettres en fonction de la trajectoire montante et descendante effectuée par les flèches sur la carte (*1,5 points)*

pts

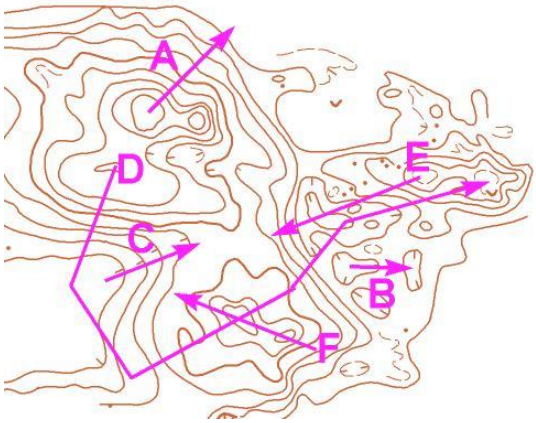

A . . descend - monte
B . . monte - descend - monte - descend
C . . monte
D . . monte descend
E . . descend - monte - descend - monte
F . . descend

8. QUI PEUT VOIR QUI ? Entoure la bonne réponse (*1 points)*

pts

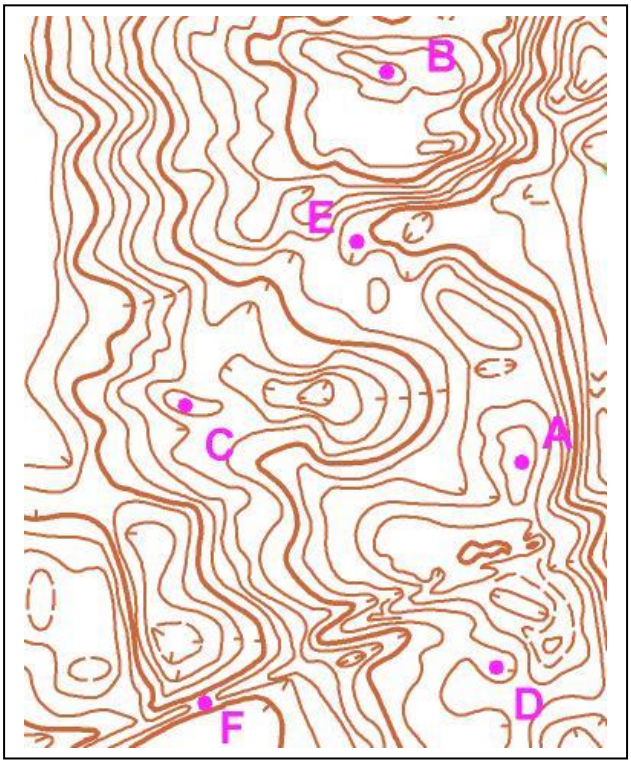

A peut voir B ? : OUI – NON

B peut voir F ? : OUI - NON

C peut voir E ? : OUI – NON

D peut voir C ? : OUI – NON

9. Trouve la balise correspondant à la définition. Reporte la lettre de la balise dans la première colonne de la grille de définitions *(2 points)*

pts

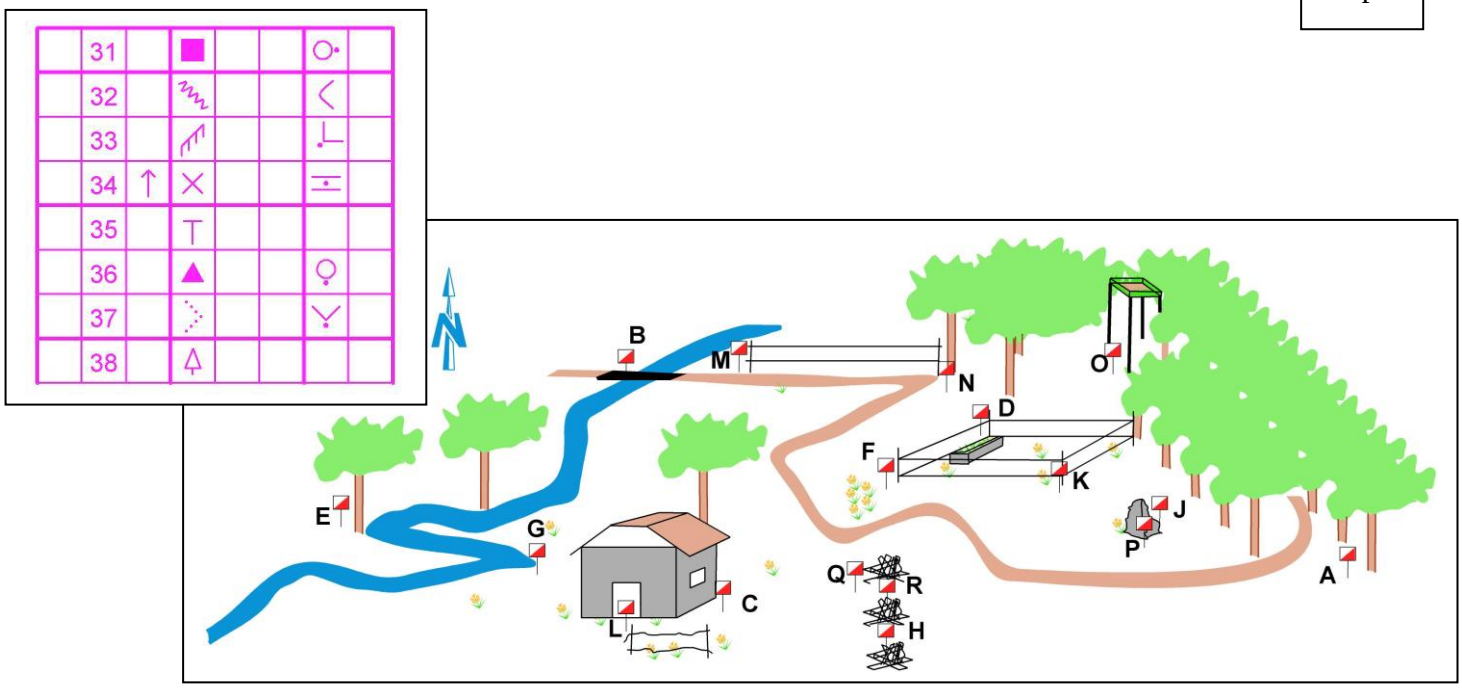

10. Sur la carte ci-dessous, trace ton itinéraire pour aller du poste 2 au poste 3. Tu préciseras les techniques d'orientation utilisées en les reportant sur le trait de votre itinéraire. Préciser par une croix votre point d'attaque et l'élément d'arrêt. *(1,5 point)*

DV = déviation volontaire *VS = visée sommaire* *VP visée précise*
LS = lecture sommaire *LP = Lecture précise* *X = Point d'attaque*
LA = ligne d'arrêt

pts

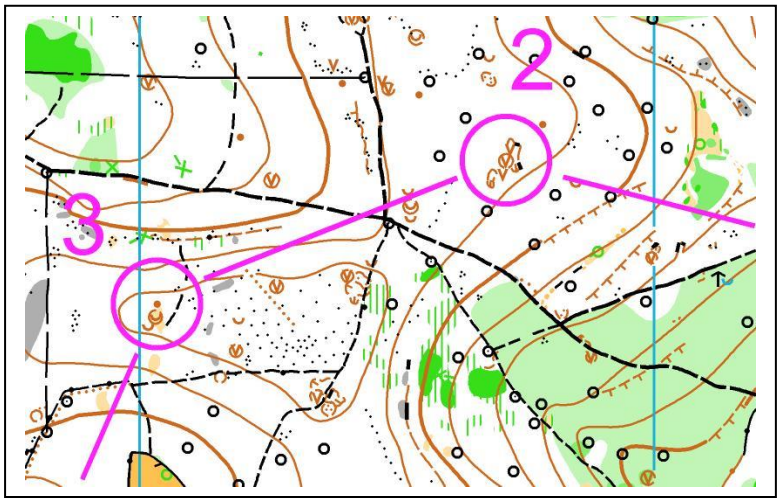

Exemple d'un itinéraire fictif
et des techniques utilisées indiquées
par les lettres dessus

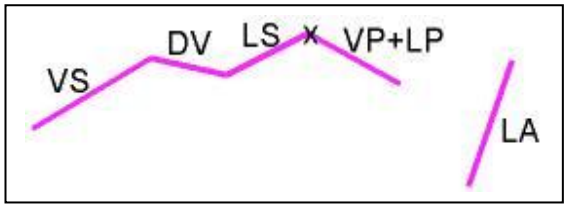

11. Reporte les 8 postes figurant sur la carte sur la photo aérienne *(2 points)*

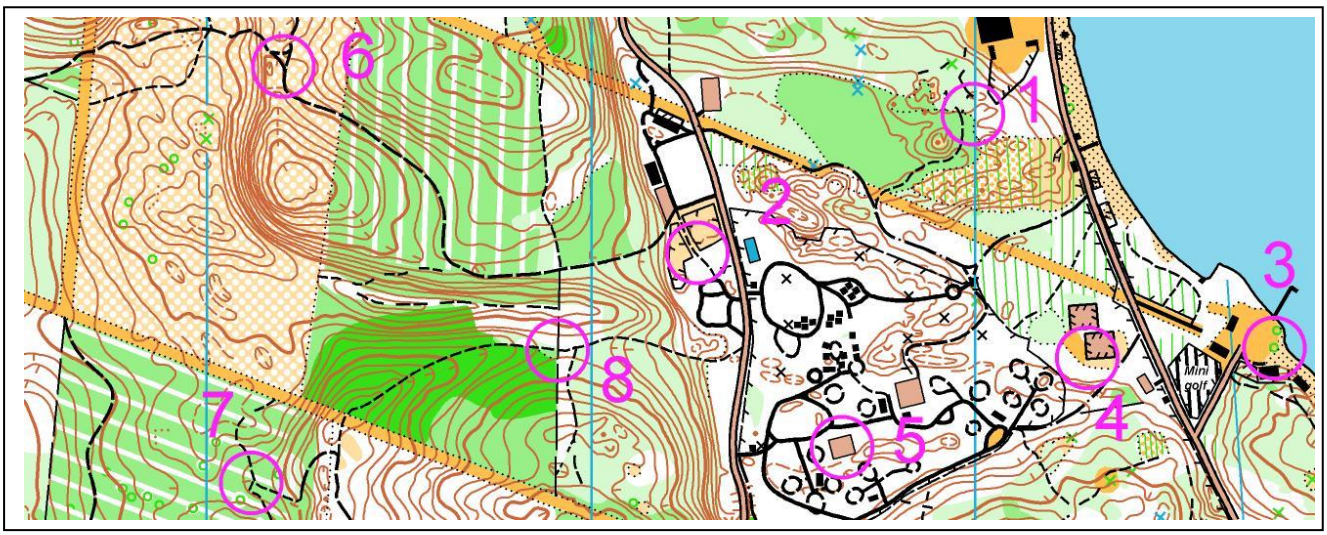

12. Regarde bien la forme des flèches qui représentent en coupe une forme de relief. Tu dois tracer sur la carte en relief une flèche qui doit retraduire cette forme. Tu marqueras à côté de la flèche que tu auras tracée sur la carte la lettre de référence correspondant à la forme de la flèche (*2points)*

pts

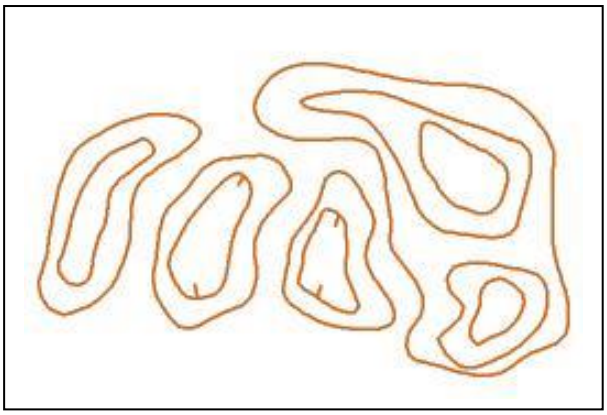

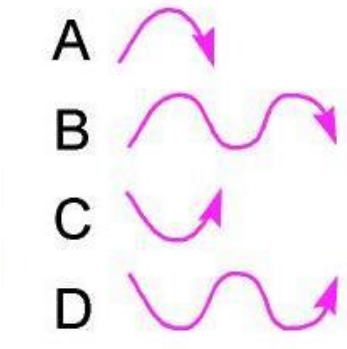

13. **Dictée'O** . Essaie de trouver l'emplacement de 3 postes qu raconte. Quand tu trouves l'emplacement du poste entoure *(2points)*
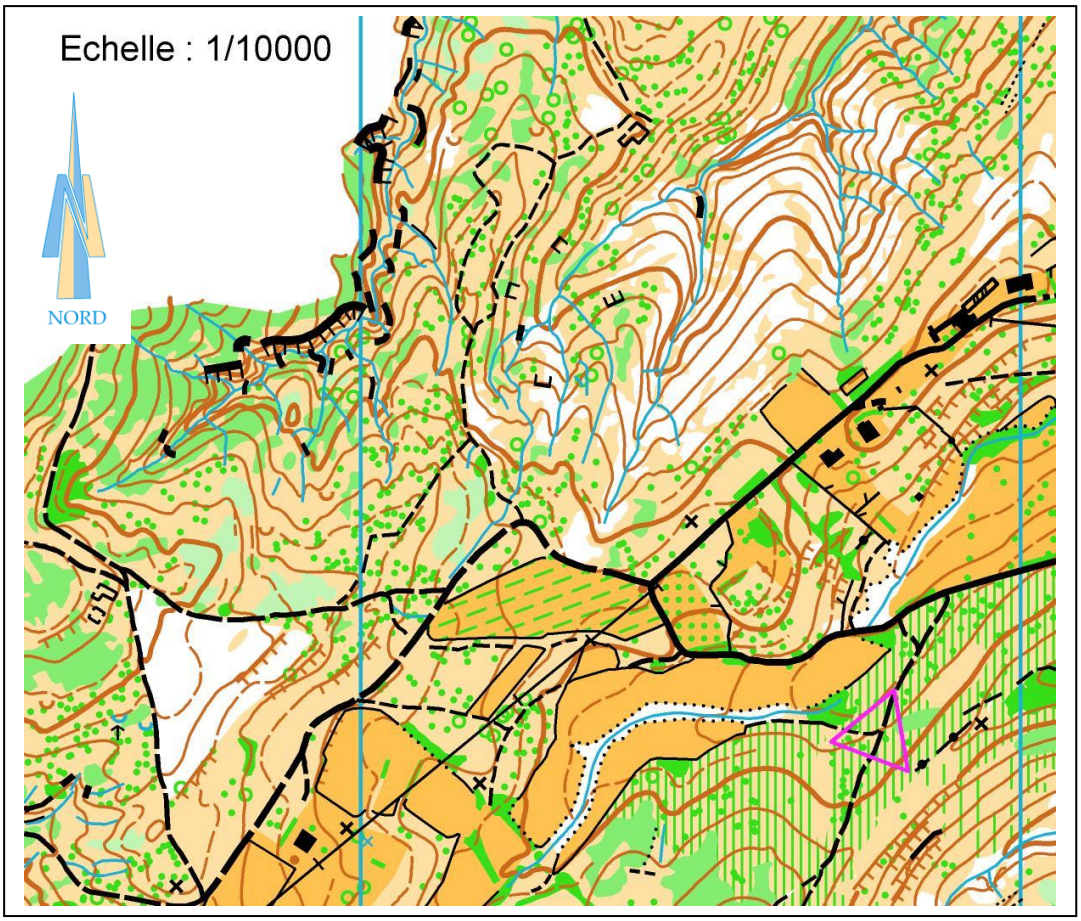
« Je suis au triangle de départ. Au top départ je prends le che jonction je tourne à gauche, je traverse la route forestière, puis le je remonte en direction des 2 maisons. Je passe entre les 2 ma dans le rentrant sur ma droite en suivant le ruisseau jusqu'à la poste 1. Je repars plein Ouest, je passe un premier rentrant. J ruisseau jusqu'à la seconde jonction qui est mon point d'attaque. au pied d'une falaise où je trouve le poste 2. Je repars plein Oues la jonction de sentiers. Je prends le sentier de droite que je suis j point d'attaque. Je fais une visée précise direction Nord-Ouest e poste 3 au bord d'une petite dépression »